TEMA: Sayılar ve Nicelikler (2) – KESİRLER **Tarih:**

Adı – Soyadı: **Numarası:** **Sınıfı:**

KESİRLER – GİRİŞ SORULARI – 2

Tüm yüzeyleri eş olan iki kitaplık modeli verilmiştir. Bu kitaplıklarda farklı sayıda raflar bulunacaktır.

Buna göre aşağıdaki soruları cevaplayınız.

1) $\frac{1}{4}$ ve $\frac{1}{6}$ kesirlerinden hangisinin daha küçük olduğunu tahmin ediniz.

Daha sonra boş kitaplıkların üzerinde bu kesirleri modelleyerek tahmininizin doğruluğunu kontrol ediniz.
(Kesirleri modellerken alt kısımdan başlayarak tarayınız.)

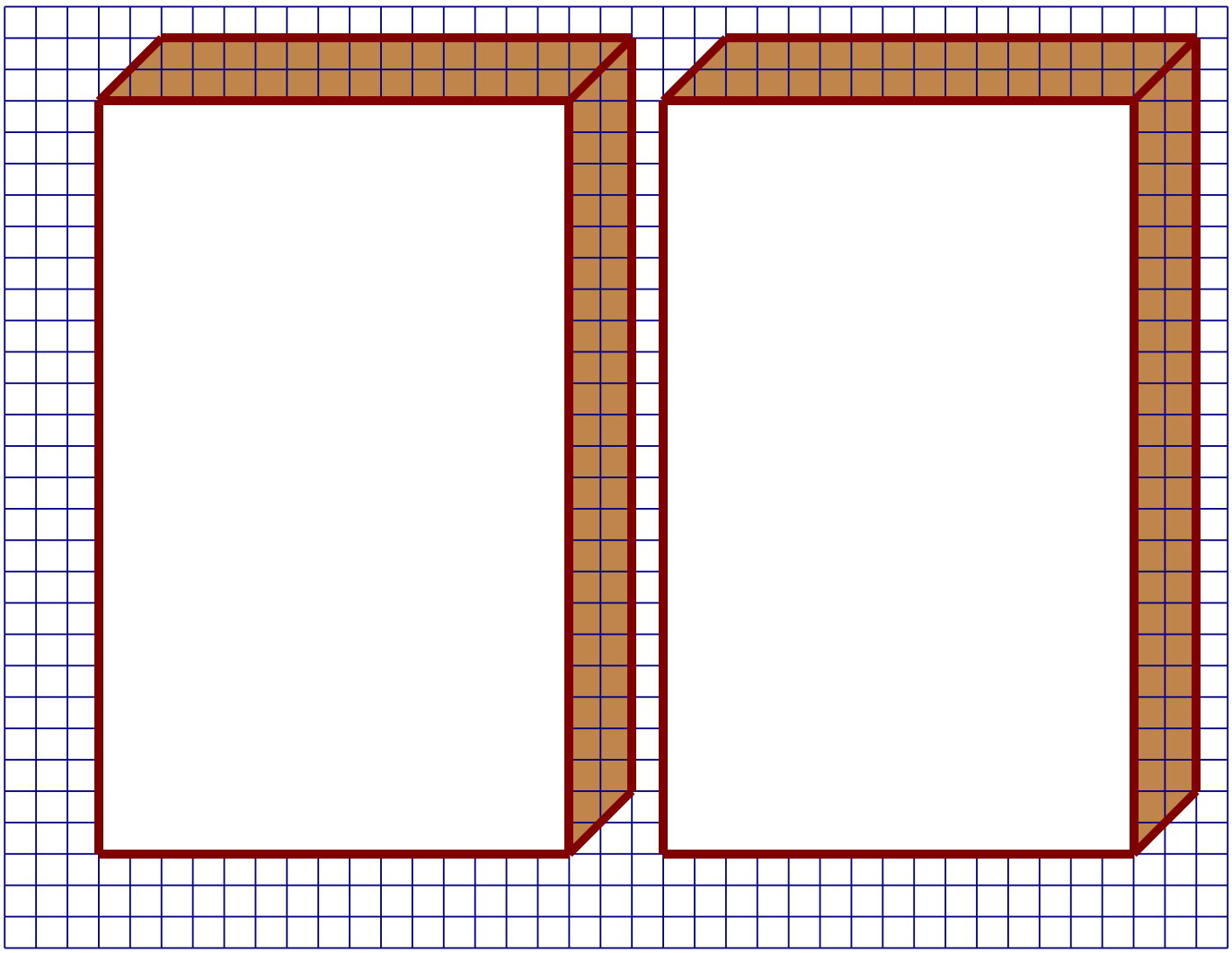

2) $\frac{3}{8}$ ve $\frac{5}{6}$ kesirlerinden hangisinin daha büyük olduğunu tahmin ediniz.

Daha sonra yarısı dolu kitaplıkların üzerinde bu kesirleri modelleyerek tahmininizin doğruluğunu kontrol ediniz.
(Kesirleri modellerken alt kısımdan başlayarak tarayınız.)

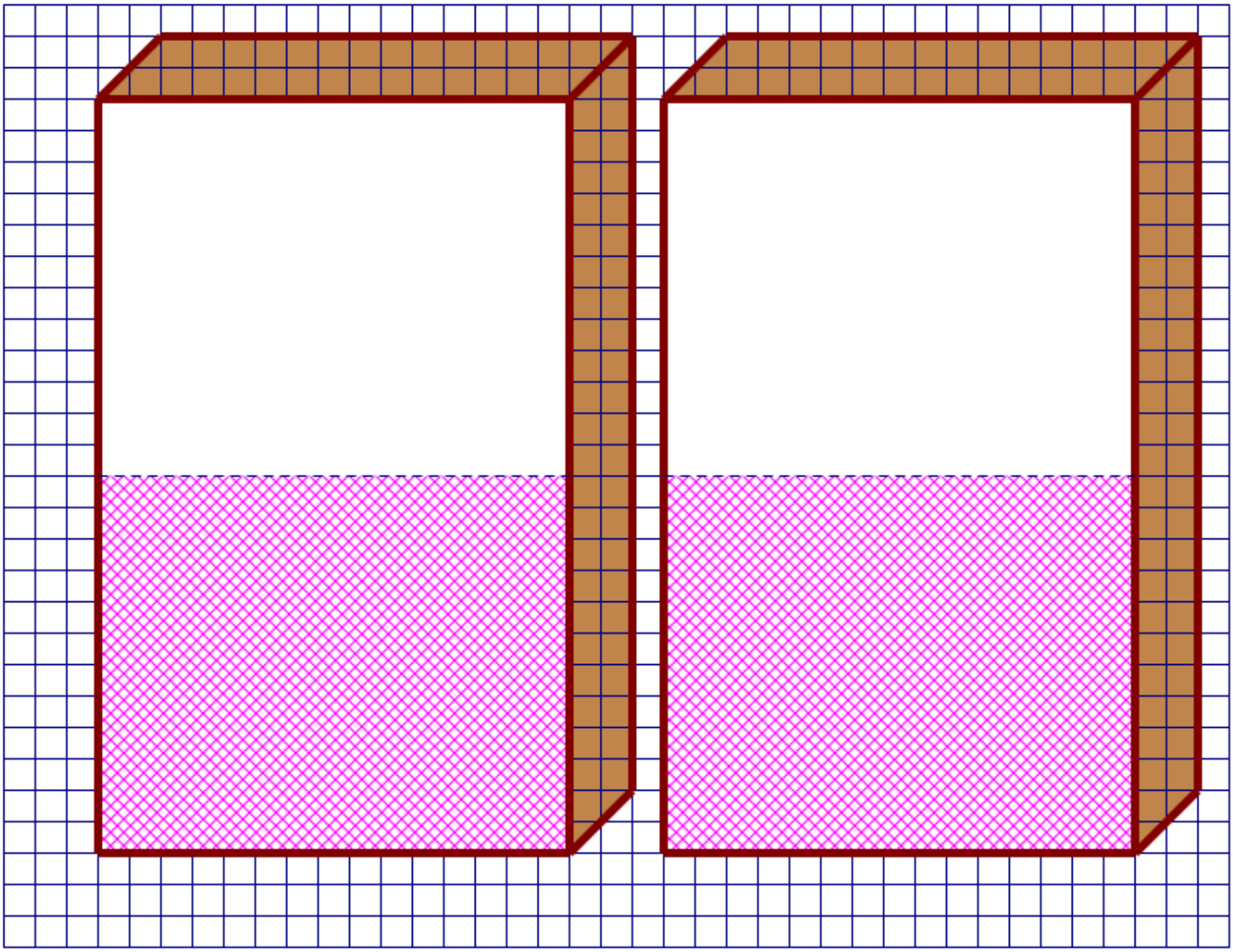

3) $\frac{11}{12}$ ve $\frac{5}{8}$ kesirlerinden hangisinin daha büyük olduğunu tahmin ediniz.

Daha sonra tamamı dolu kitaplıkların üzerinde bu kesirleri modelleyerek tahmininizin doğruluğunu kontrol ediniz.
(Kesirleri modellerken alt kısımdan başlayarak tarayınız.)

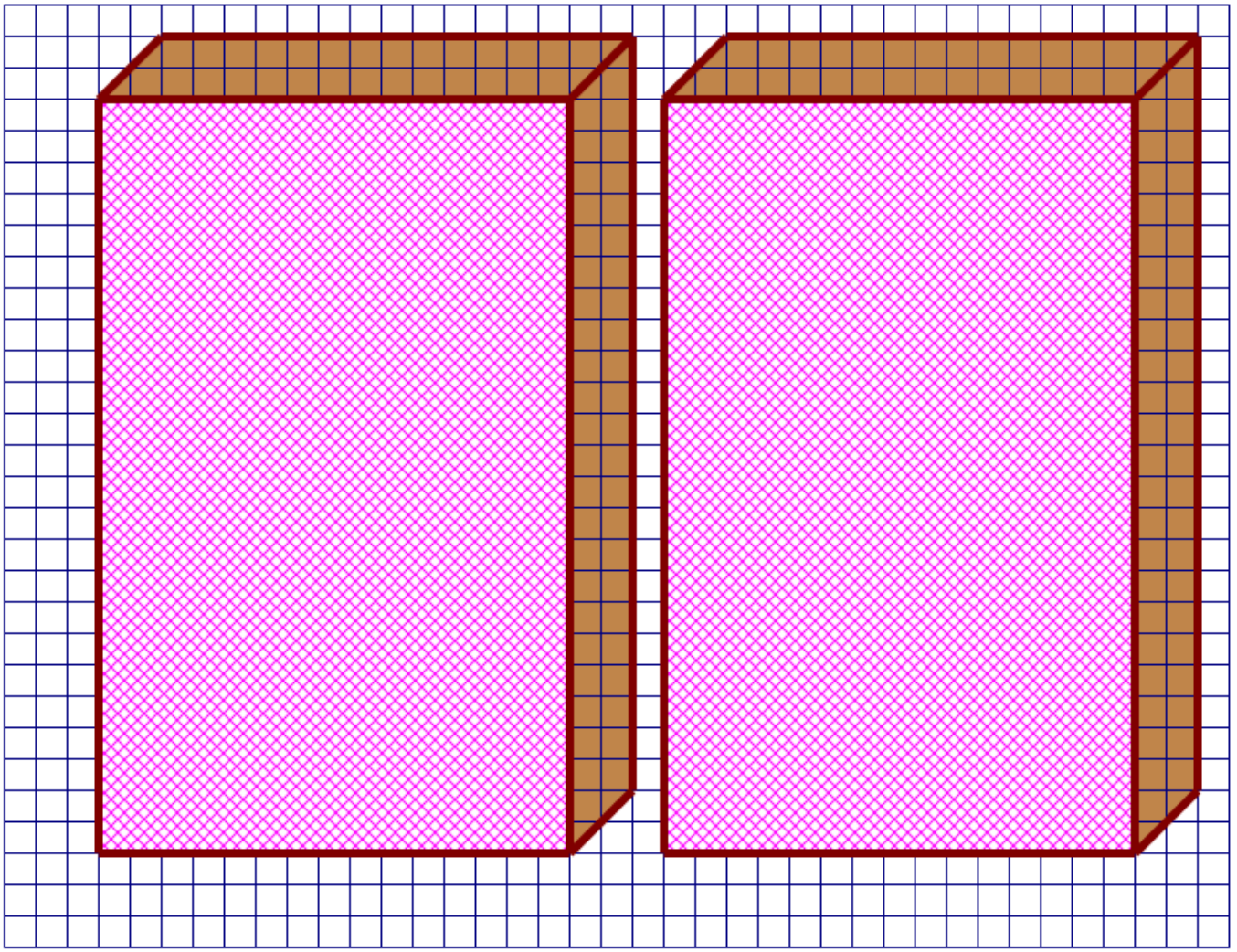

4) $\frac{5}{12}$ ve $\frac{5}{8}$ kesirlerinden hangisinin daha büyük olduğunu tahmin ediniz.

Daha sonra yarısı dolu kitaplıkların üzerinde bu kesirleri modelleyerek tahmininizin doğruluğunu kontrol ediniz.
(Kesirleri modellerken alt kısımdan başlayarak tarayınız.)

