TEMA: Sayılar ve Nicelikler (2) – KESİRLER **Tarih:**

Adı – Soyadı: **Numarası:** **Sınıfı:**

KESİRLER – ÖN DEĞERLENDİRME SORULARI

1) Aşağıda verilen soruları cevaplayınız.

a) $\frac{1}{3}$ ile $\frac{1}{6}$ birim kesirlerinden hangisinin daha büyük olduğunu tahmin ediniz.

b) $\frac{1}{3}$ ile $\frac{1}{6}$ kesirlerini aşağıdaki sayı doğrusunda göstererek karşılaştırınız.

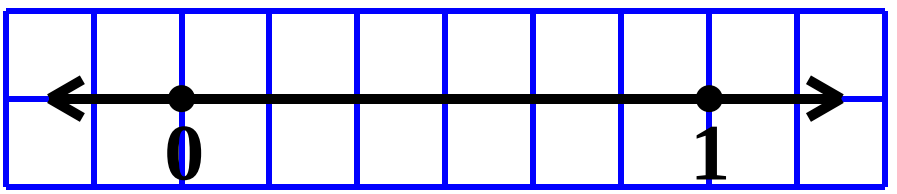

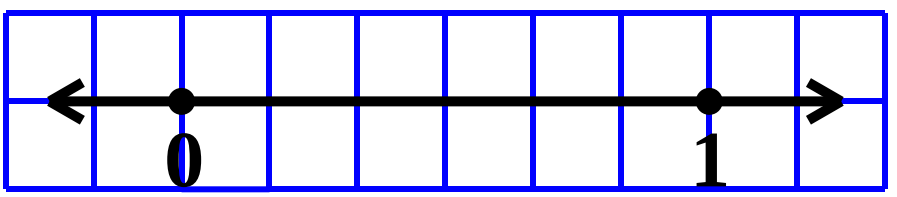

c) Birim kesirlerin karşılaştırılması ile ilgili yapılan genellemeyi hatırladınız mı?

2) Aşağıdaki bütünleri, belirtilen sayıda eş parçaya ayırıp verilen soruları cevaplayınız.

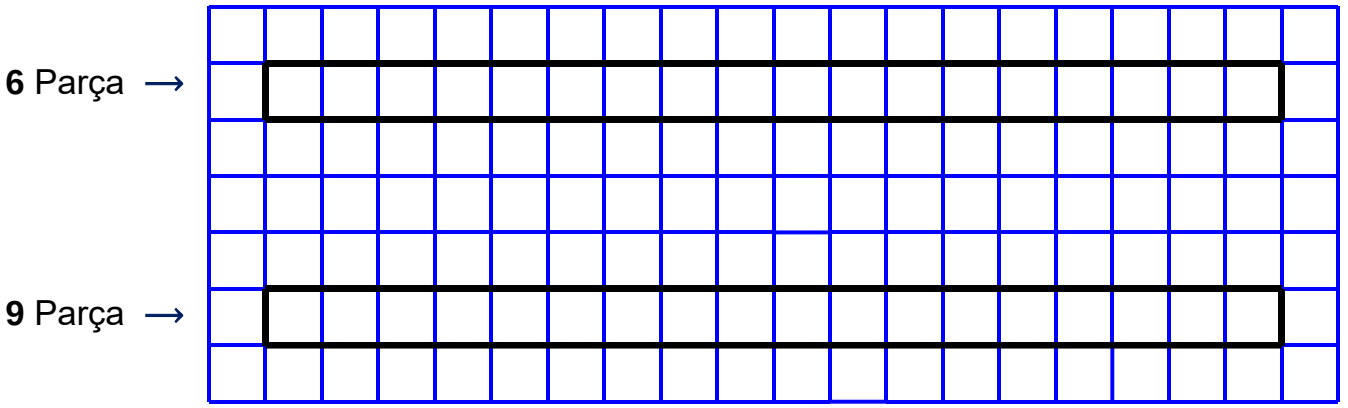

a) Elde ettiğiniz parçaları iki bütünde de eşit büyüklüğü gösterecek şekilde tarayınız.

b) Taradığınız parçalara karşılık gelen kesir gösterimlerini yazınız.

c) Aynı büyüklüğü ifade eden bu kesir gösterimlerine ne ad verildiğini hatırladınız mı?