Het begrip afgeleide

www.karelappeltans.be

April 22, 2026

1 Herhaling rico van een rechte

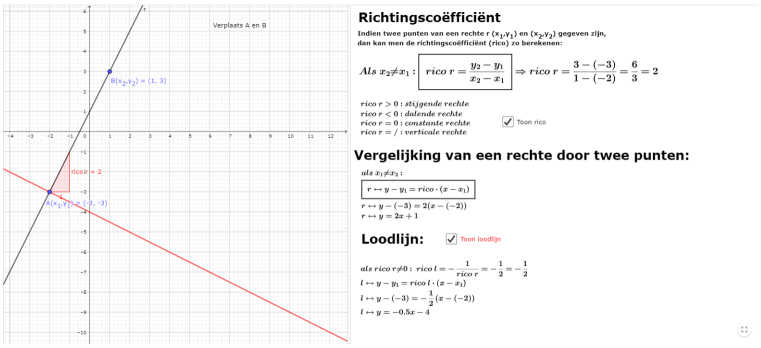

Figure 1: https://www.geogebra.org/m/V6dh2XPP

2 Gemiddelde verandering over een interval

2.1 Begripsvorming

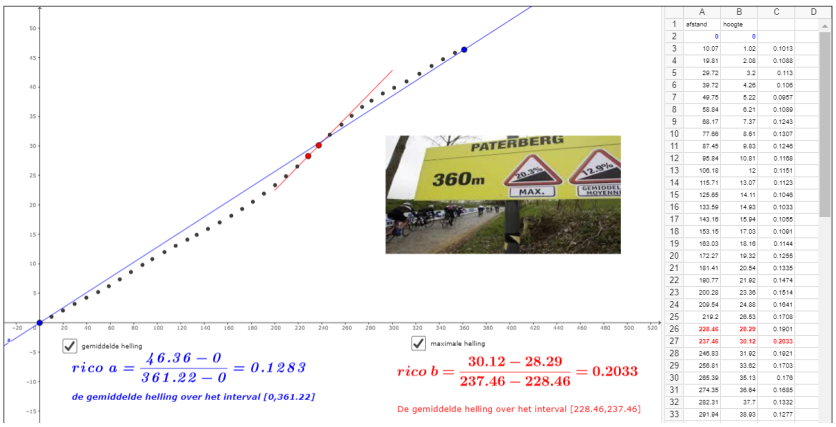

Figure 2: https://www.geogebra.org/m/Bt3aCMHz

2.2 Differentiequotiënt

De gemiddelde verandering of differentiequotiënt van een continue functie f over het interval [a,b]:

$$\frac{f(b) - f(a)}{b - a}$$

M.a.w. dit is de rico van de rechte door de punten $P(a, f(a))$ en $Q(b, f(b))$

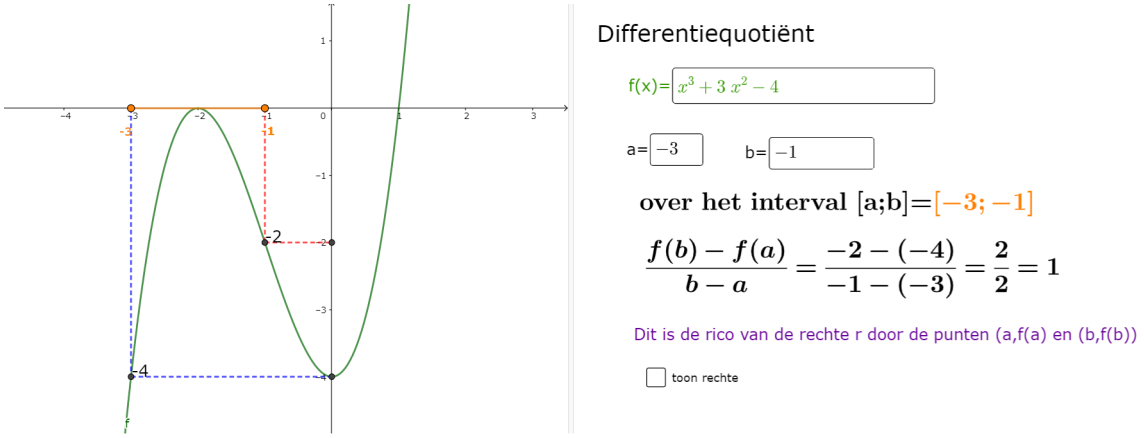

Figure 3: https://www.geogebra.org/m/Bt3aCMHz

3 Ogenblikkelijke verandering in een punt

3.1 Definitie afgeleide in een punt

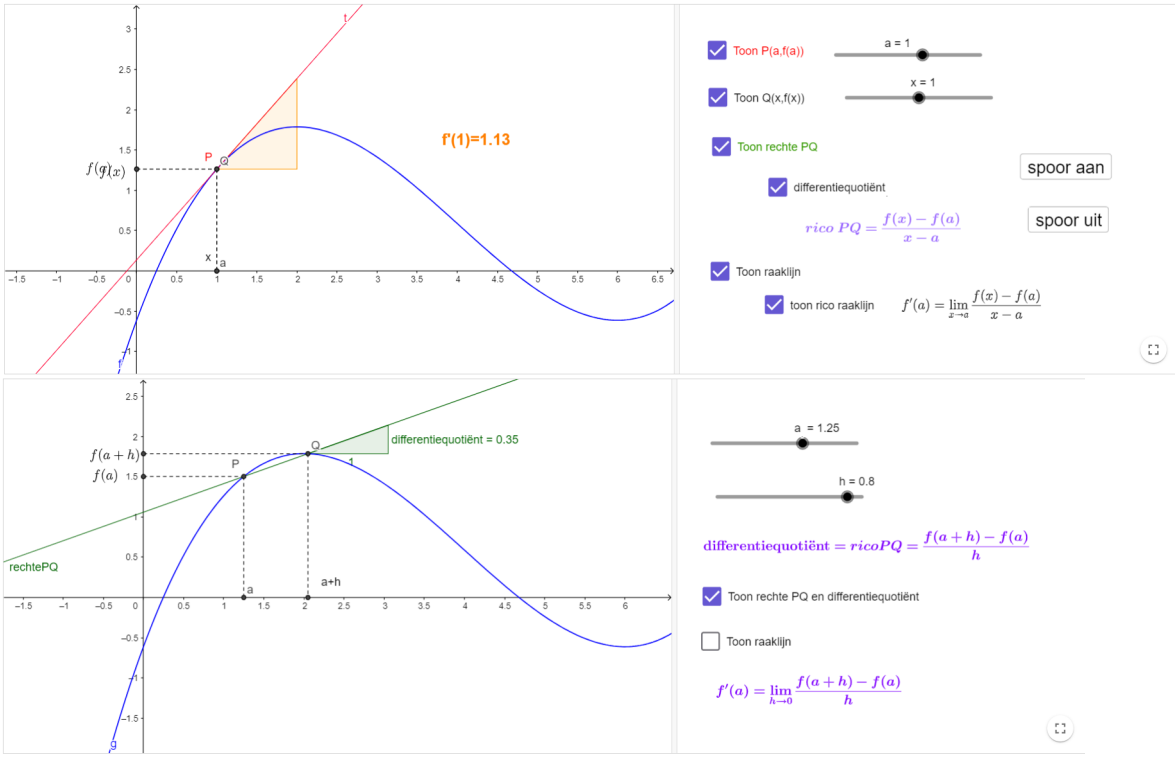

Figure 4: https://www.geogebra.org/m/NGkF3XS6

3.2 Berekening f'(a) met behulp van definitie

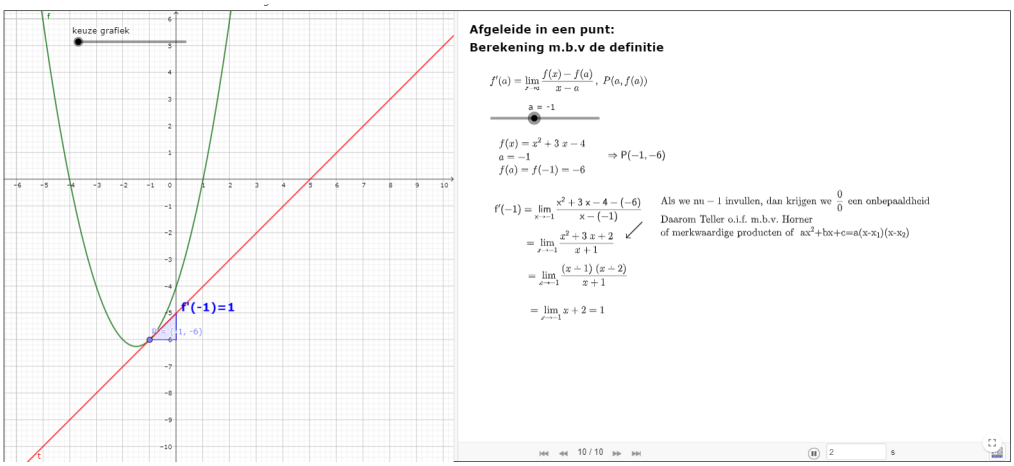

Figure 5: https://www.geogebra.org/m/NGkF3XS6

4 Rekenregel voor $x^n, n \in \mathbb{Q}$

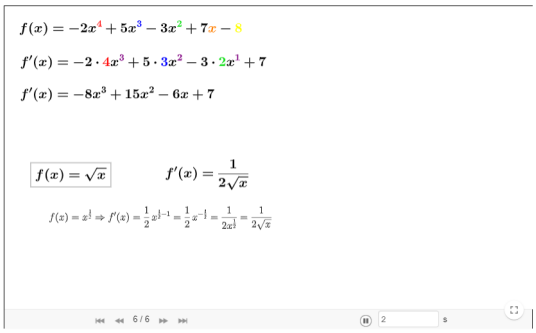

Figure 6: https://www.geogebra.org/m/zdynkwv5

5 Alternatieve notaties

Voorbeeld: $f(x) = x^3 + 3x^2 - 4$

Notatie 1: $f'(x) = (x^3 + 3x^2 - 4)' = 3x^2 + 6x$
Notatie 2: $Df(x) = D(x^3 + 3x^2 - 4) = 3x^2 + 6x$
Notatie 3: $\dfrac{df(x)}{dx} = \dfrac{d(x^3 + 3x^2 - 4)}{dx} = 3x^2 + 6x$
Notatie 4: $\dfrac{dy}{dx} = 3x^2 + 6x$

6 Vergelijking raaklijn

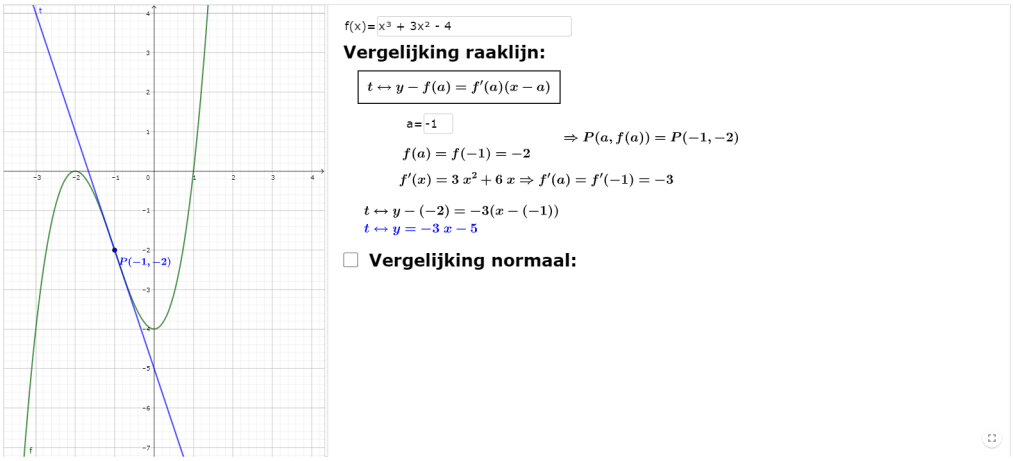

Figure 7: https://www.geogebra.org/m/EscjM2Rh

7 Toepassingen op raaklijn

7.1 Lineaire benadering

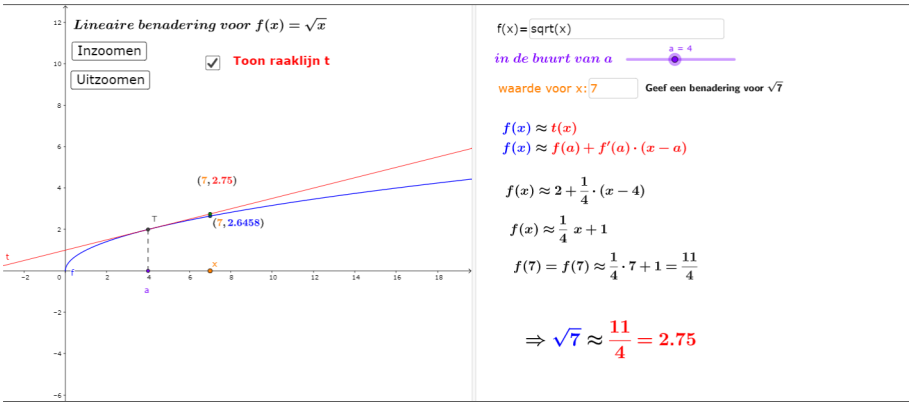

Figure 8: https://www.geogebra.org/m/NwZHM6eQ

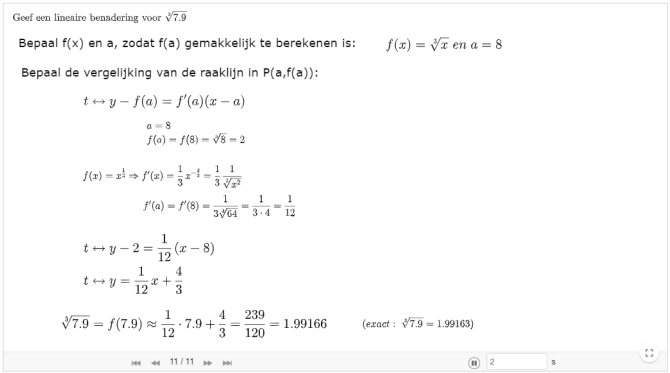

Figure 9: https://www.geogebra.org/m/NwZHM6eQ

7.2 Fouten propagatie

Er wordt een fout gemeten, in zeg bijvoorbeeld de zijde van een vierkant. Op welke manier zet deze fout zich door in de berekening van de oppervlakte en hoe kunnen we afschatting bekomen voor deze foutdoorzetting?



Figure 10: https://www.geogebra.org/m/NwZHM6eQ

7.3 Methode van Newton Raphson

Deze methode kan gebruikt worden om nulpunten van een functie iteratief te bepalen.

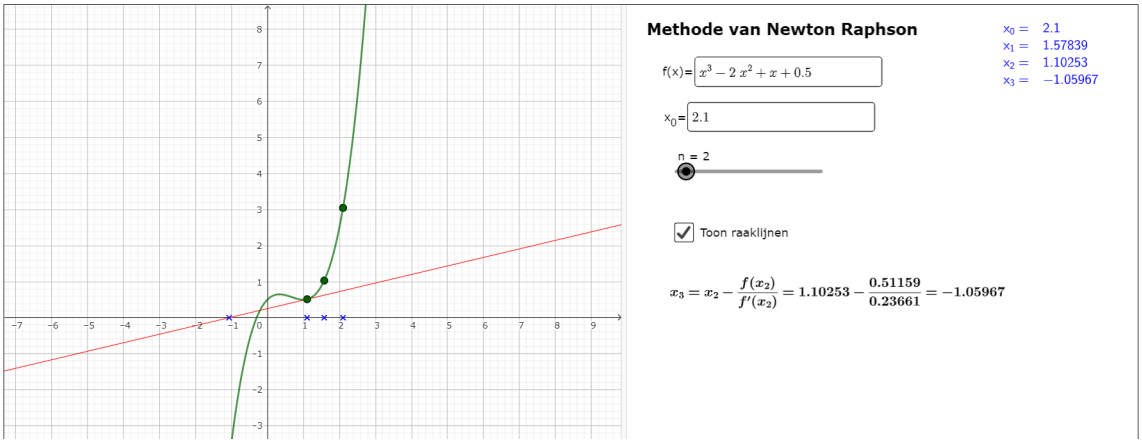

Figure 11: https://www.geogebra.org/m/TGBSbRyf

7.4 Economische toepassing: het begrip marginaliteit

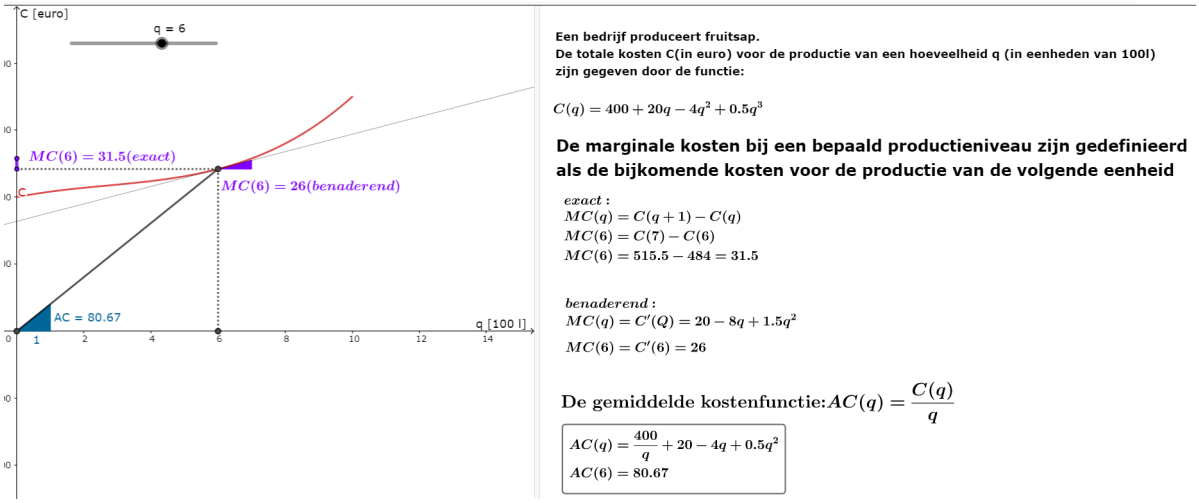

Figure 12: https://www.geogebra.org/m/qVhQfWrd

8 Afgeleide functie of hellingsfunctie

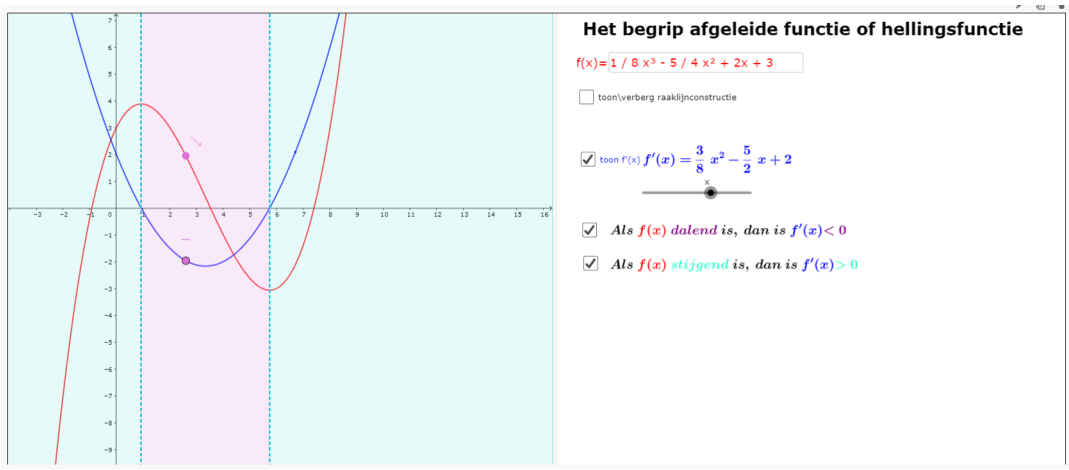

Figure 13: https://www.geogebra.org/m/dWqwC5qd

9 Tweede afgeleide

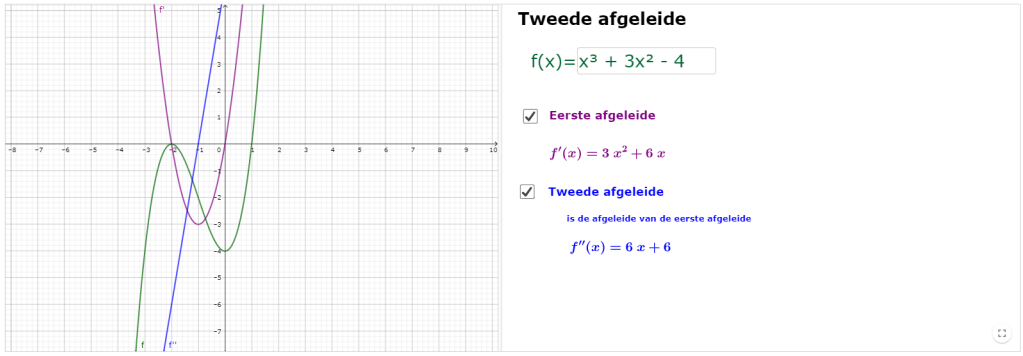

Figure 14: https://www.geogebra.org/m/qt9vwxqv



Figure 15: https://www.geogebra.org/m/qt9vwxqv

10 Toepassingen uit de fysica

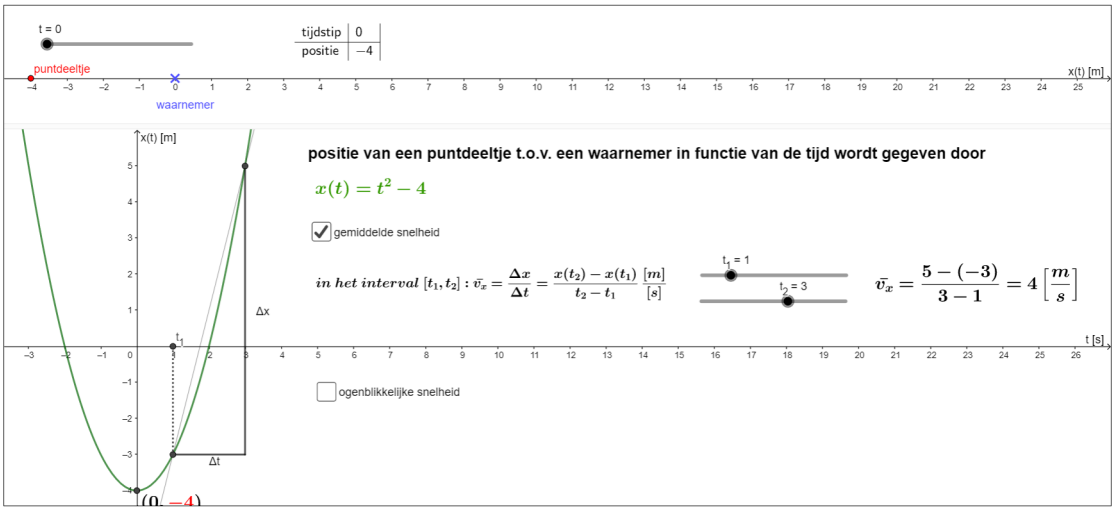

Figure 16: https://www.geogebra.org/m/nsGgY8T3

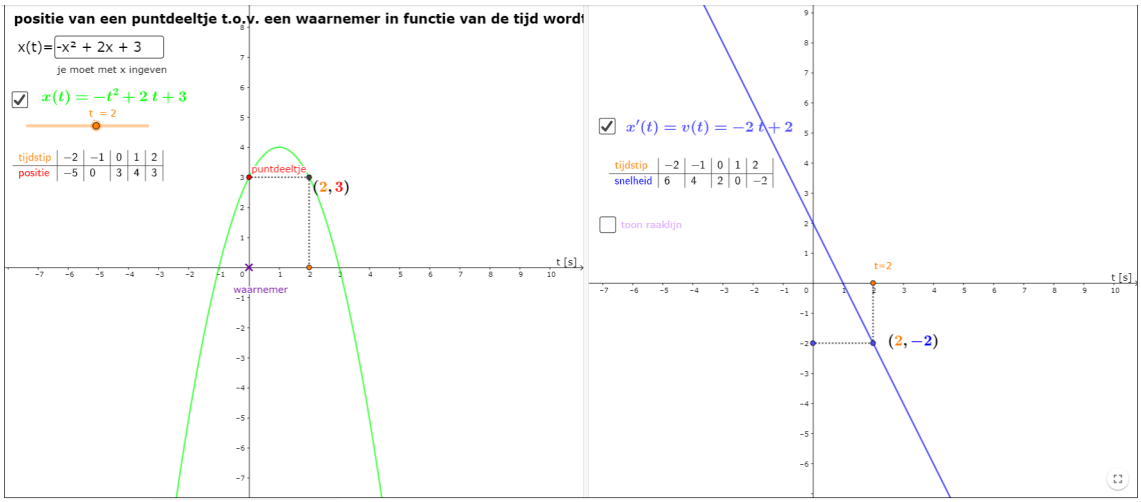

Figure 17: https://www.geogebra.org/m/nsGgY8T3

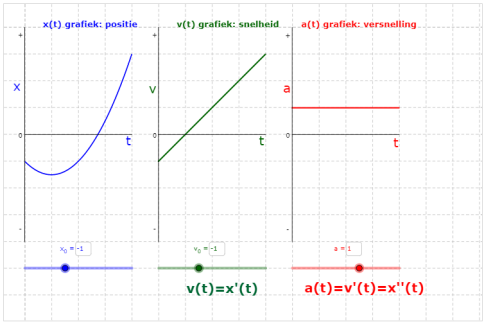

Figure 18: https://www.geogebra.org/m/nsGgY8T3

11 Niet alle functies zijn overal afleidbaar

11.1 Verticale raaklijn

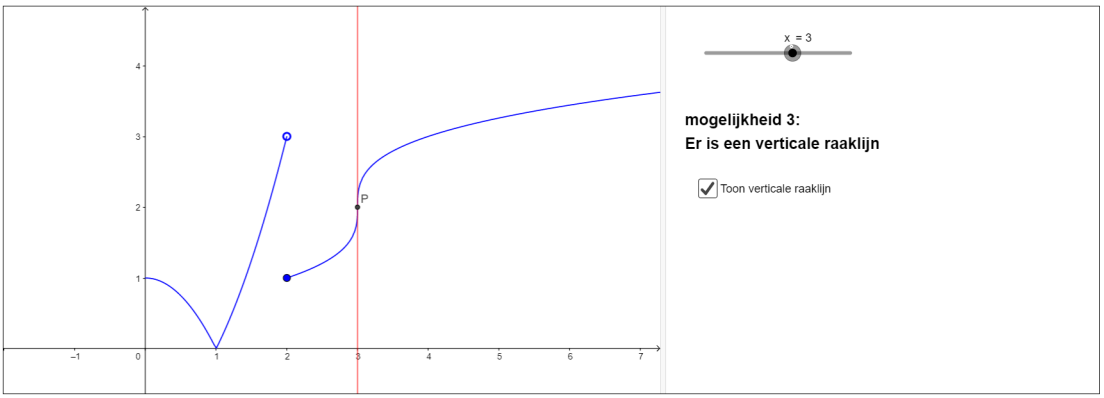

Figure 19: https://www.geogebra.org/m/qfSuH6rn

11.2 Linkerafgeleide is verschillend van rechterafgeleide

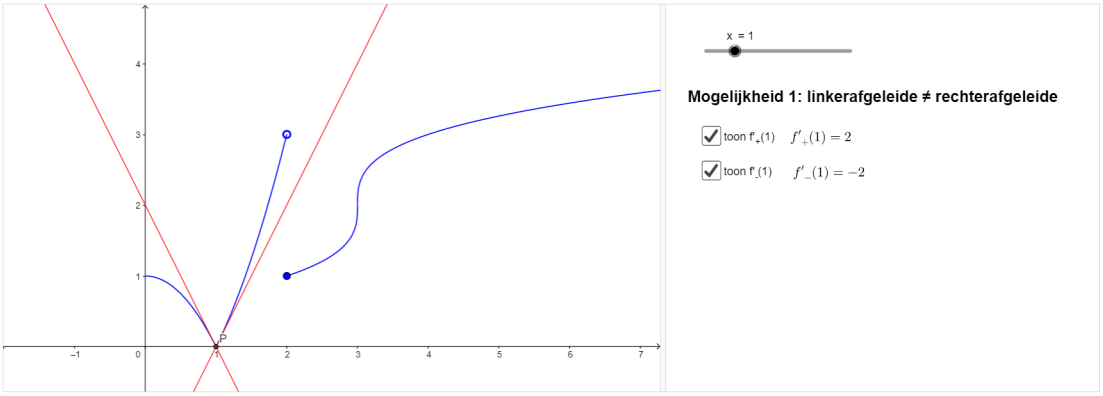

Figure 20: https://www.geogebra.org/m/qfSuH6rn

11.3 Niet continu

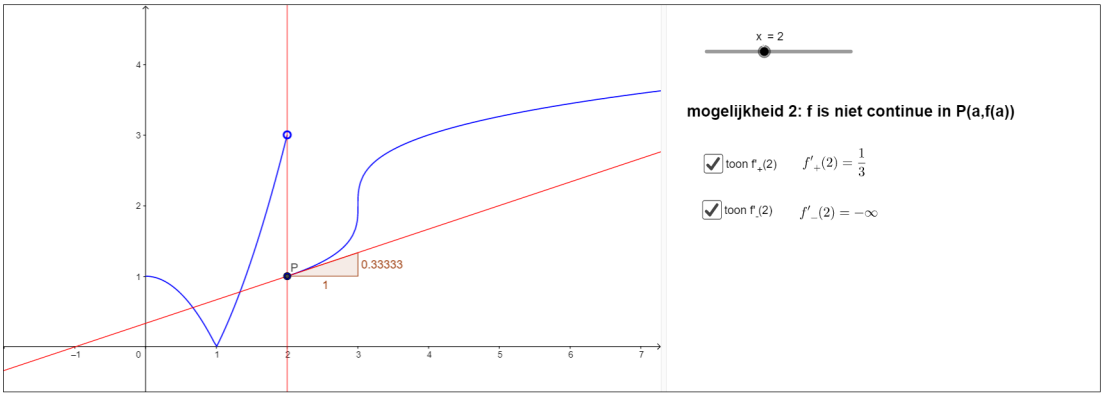

Figure 21: https://www.geogebra.org/m/qfSuH6rn

11.4 Voorbeelden

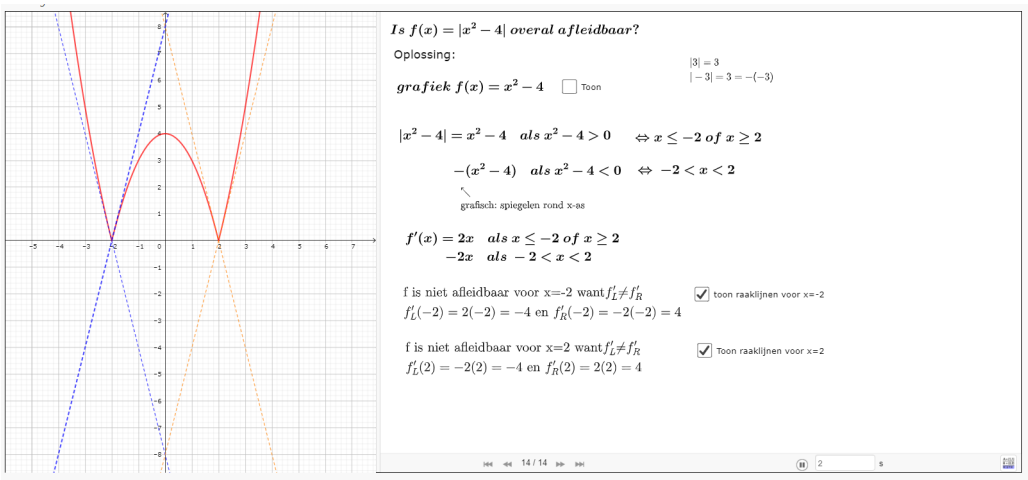

Figure 22: https://www.geogebra.org/m/qfSuH6rn

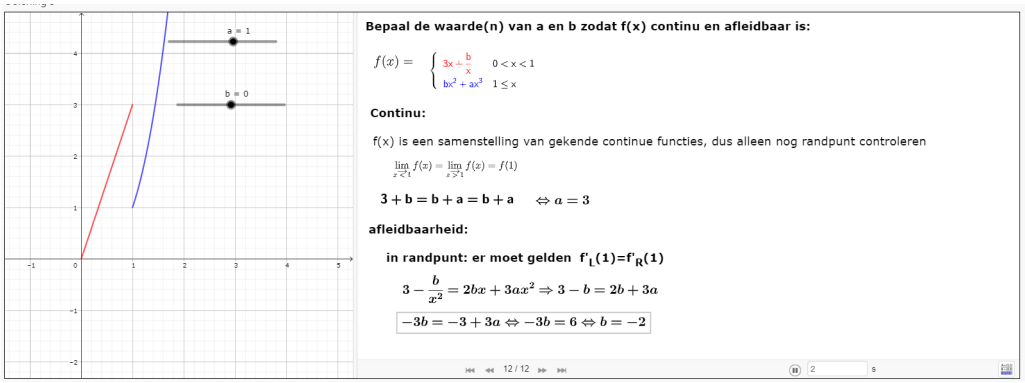

Figure 23: https://www.geogebra.org/m/qfSuH6rn

12 Continuïteit en afgeleide

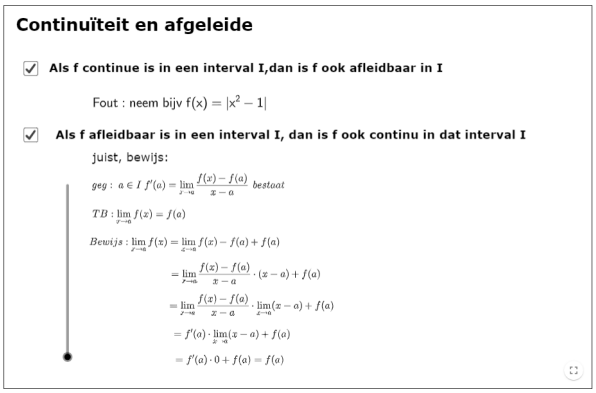

Figure 24: https://www.geogebra.org/m/xqp6dj2p

13 Oefeningen

1. Bereken m.b.v. de definitie de afgeleide in de aangegeven punten
   (a) $f(x) = -x^2 + 3x - 4,\ P(1, f(1))$
   (b) $f(x) = \sqrt{2x-4},\ P(10, f(10))$
   (c) $f(x) = \frac{3}{x+1},\ P(-2, f(-2))$
2. Bereken de afgeleide van onderstaande functies m.b.v. de rekenregel
   (a) $g(x) = 10x^5 - 7x^3 + 4x^-6$
   (b) $x(t) = 4t^3 - 3t^2 + 5t - 7$
   (c) $f(x) = x \cdot \sqrt{x} + 4x^5 - 8x + 9$
3. Bereken de vergelijking van de raaklijn in het gegeven punt
   (a) $f(x) = 3x^2 - 4x + 7,\ a = -2$
   (b) $f(x) = x^3 + 2\sqrt{x},\ a = 1$
   (c) $f(x) = \sqrt{x},\ a = 9$
   (d) $f(x) = \frac{1}{x},\ a = -1$
4. Bepaal de vergelijking van de raaklijn aan $f(x) = x^2$ die ook door het punt $Q(3, 8)$ gaat.
5. Bepaal de vergelijkingen van de raaklijnen aan $f(x) = 2x^2$ die door het punt $P(2, -10)$ gaan. (A. $y = -4x + 2, y = 20x - 50$)
6. Bepaal de rico van de raaklijn aan $y = \sqrt{x}$ die de x-as snijdt in $P(-1, 0)$
7. Bepaal de vergelijking van de raaklijn aan $y = x\sqrt{x}$ die evenwijdig is met de rechte $y = 3x + 1$
8. Geef een lineaire benadering voor:
   (a) $\sqrt{4.05}$
   (b) $\sqrt[3]{8.4}$
   (c) $\sqrt{16,03}$ met behulp van $f(x) = \sqrt{x+9}$
9. Gegeven is de grafiek van f'(x). Gebruik deze samen met het feit dat $f(-1) = 4$ om een lineaire benadering te geven voor $f(-0.5)$

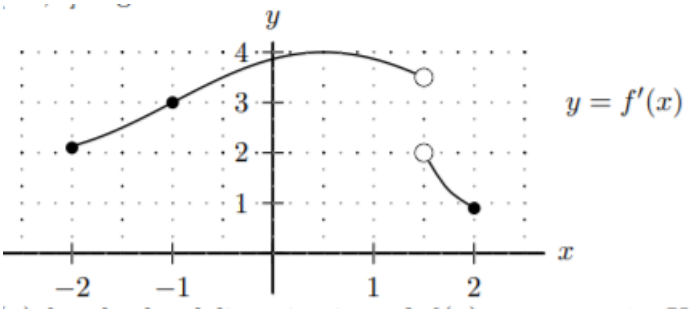

10. Geef een afschatting voor de absolute en relatieve fout

    (a) van de inhoud van een kubus als een zijde $30cm$ gemeten wordt, met een foutenmarge van 0.1 cm.

    (b) van de opp van een cirkel met een gemeten straal van 1 m, met een mogelijke foutmarge van $0.04m$. (A. absolute fout 0.08π)

11. Ga na voor welke x-waarden volgende functies niet afleidbaar zijn:

    (a) $f(x) = |x^2 - 4x - 5|$

    (b) $f(x) = \sqrt[3]{x-1}$

    (c) $f(x) = \lfloor \sqrt{x} \rfloor$

    (d) $f(x) = |x^2 - x|$

12. Voor hoeveel waarden van x, met $x \in [0, 2]$ is $f(x) = |x - \frac{1}{2}| + |x - 1| + \tan(x)$ niet afleidbaar?

13. Bepaal de waarde(n) van de parameters zodat volgende functies met meervoudig voorschrift in hun domein continu en afleidbaar zijn:

    (a) $f(x) = \begin{cases} x^2 - 2x - a & x < 1 \\ -x^2 + bx + 2 & x \geq 1 \end{cases}$

    (b) $f(x) = \begin{cases} 3x + \frac{B}{x} & 0 < x < 1 \\ Bx^2 + Ax^3 & x \geq 1 \end{cases}$

    (c) $f(x) = \begin{cases} 2x + 1 & x \leq k \\ x^2 - 2ax + a^2 + 2 & x > k \end{cases}$

14. Bepaal in elke grafiek $f(x), f'(x)$ en $f"(x)$

    (a)

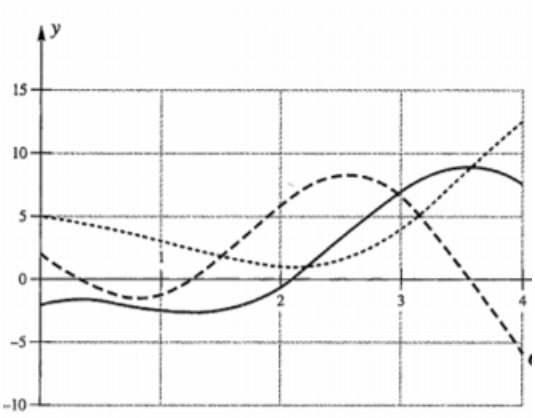

De onderstaande figuur toont de grafiek van drie verschillende reële functies f, g en h. Eén van onderstaande verbanden is geldig, welk?

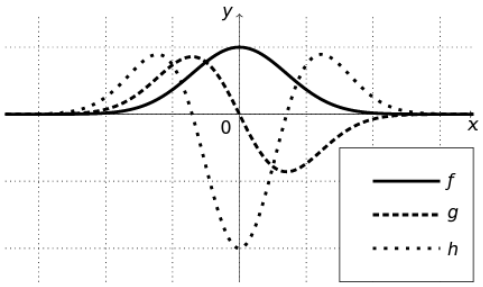

(A) $f = g' = h''$

(B) $f = h' = g''$

(C) $h = f' = g''$

(D) $h = g' = f''$

(b)

15. Gegeven zijn de grafieken van een functie en haar afgeleide functie. Wie is wie? Verklaar jullie antwoord.

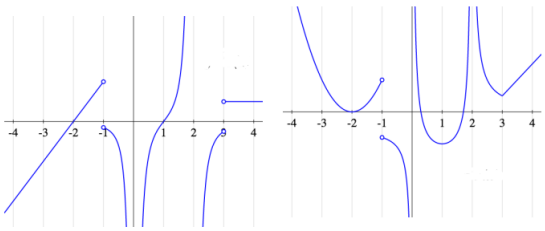

16. Beantwoord onderstaande vragen

6. [11 points] Link and Boots decided to have a race down a straight portion of Pauline Boulevard that is 1.1 kilometers long. Let $L(t)$ and $B(t)$ be Link's and Boots's respective distances from their starting point t seconds after the race began. A graph of $L(t)$ and $B(t)$ is shown below.

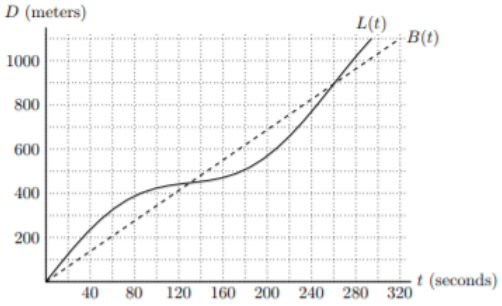

a. [1 point] Who won the race? (Circle your answer.)

Link Boots

b. [2 points] Estimate the times at which Link and Boots were running at the same speed.

c. [3 points] Estimate Link's average velocity over the first 100 seconds of the race. Include units.

d. [3 points] Estimate Link's instantaneous velocity 40 seconds after the race began. Include units.

e. [2 points] 160 seconds after the race began, is Link's acceleration positive, negative, or equal to zero? (Circle your answer.)

positive negative zero

17. Gegeven is onderstaande $x(t) - grafiek$:

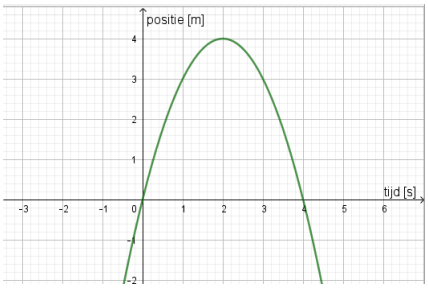

De versnelling is het grootst op

(a) $t = 2$ s
(b) $t = 0$ s
(c) $t = 0$ en $t = 4$ s
(d) overal even groot

18. Gegeven $x(t) = t^2 - 3t + 4$

(a) Bepaal de gemiddelde snelheid in het interval $[1, 3]$
(b) Bepaal de ogenblikkelijke snelheid voor $t = 2$

19. Gegeven $x(t) = t - t^2, 0 \leq t \leq 5$

(a) Waar bevindt zich dit puntdeeltje na 2 sec t.o.v. een waarnemer in de oorsprong?
(b) Bepaal de gemiddelde snelheid in het interval $[0, 5]$
(c) Bepaal a(3). Wat wordt hiermee bedoelt?

20. Gegeven is onderstaande $v(t) - grafiek$ over het interval $[0, 5]$ Bepaal de $a(t) - grafiek$ in hetzelfde interval.

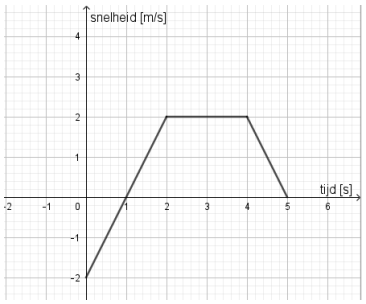

14 taken

1. definitie afgeleide
2. toepassingen op definitie