沙田崇真學校

姓名: _____(　　)　日期: _____

平面圖形

1. _____ 邊形	2. _____ 邊形
	

3. 畫出這個平面圖形，這是一個 _____ 形。	
	

https://www.geogebra.org/m/brpzum2e

4. 畫出這個平面圖形，這是一個 _____ 形。	
	

製作你的平面圖形:

5.	6.
	
這是一個 _____ 邊形。	這是一個 _____ 形。

https://polypad.amplify.com/p#polygons