Bepaalde integraal

www.karelappeltans.be

January 8, 2026

1 Inleiding

"Oppervlakte" berekenen tussen de grafiek van een functie en een gedeelte van de x-as.

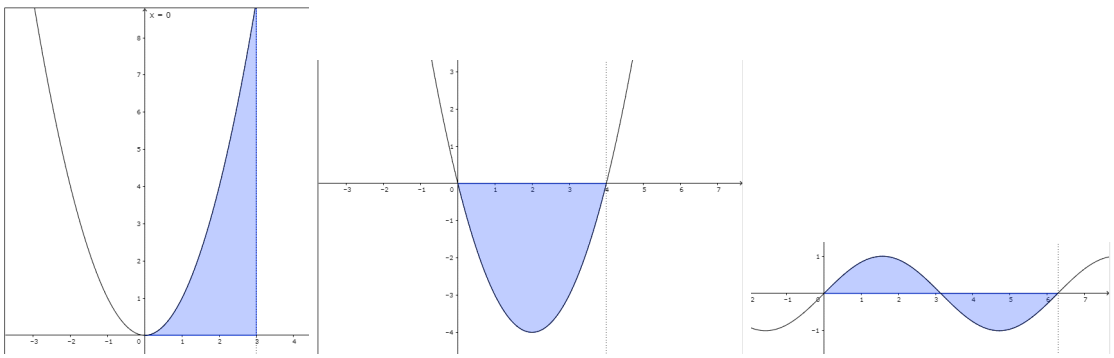

Figure 1: https://www.geogebra.org/m/CwjpD27v

2 Bepaalde integraal als Riemannsom

2.1 Riemannsom

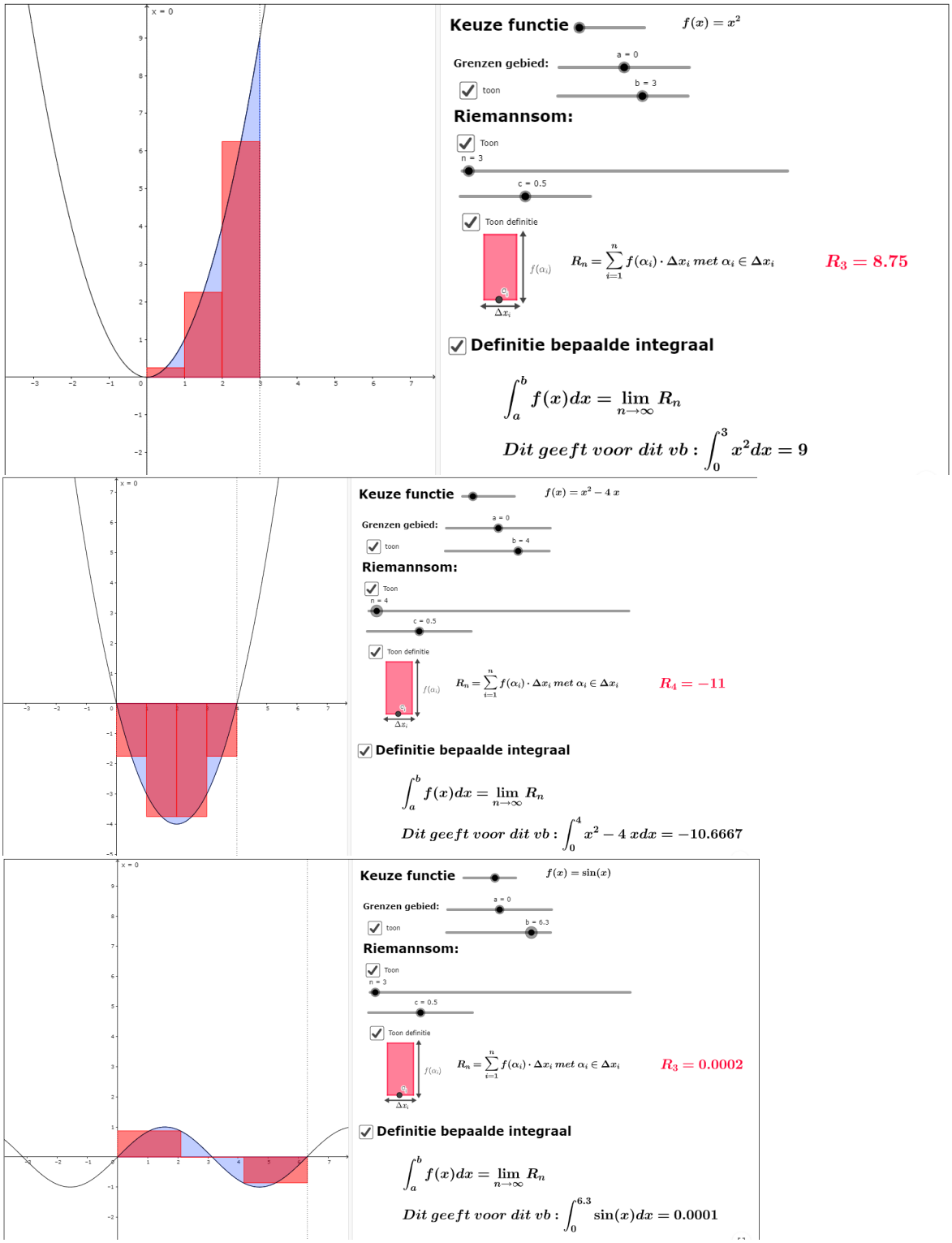

Figure 2: https://www.geogebra.org/m/CwjpD27v

2.2 Onder- en bovensommen

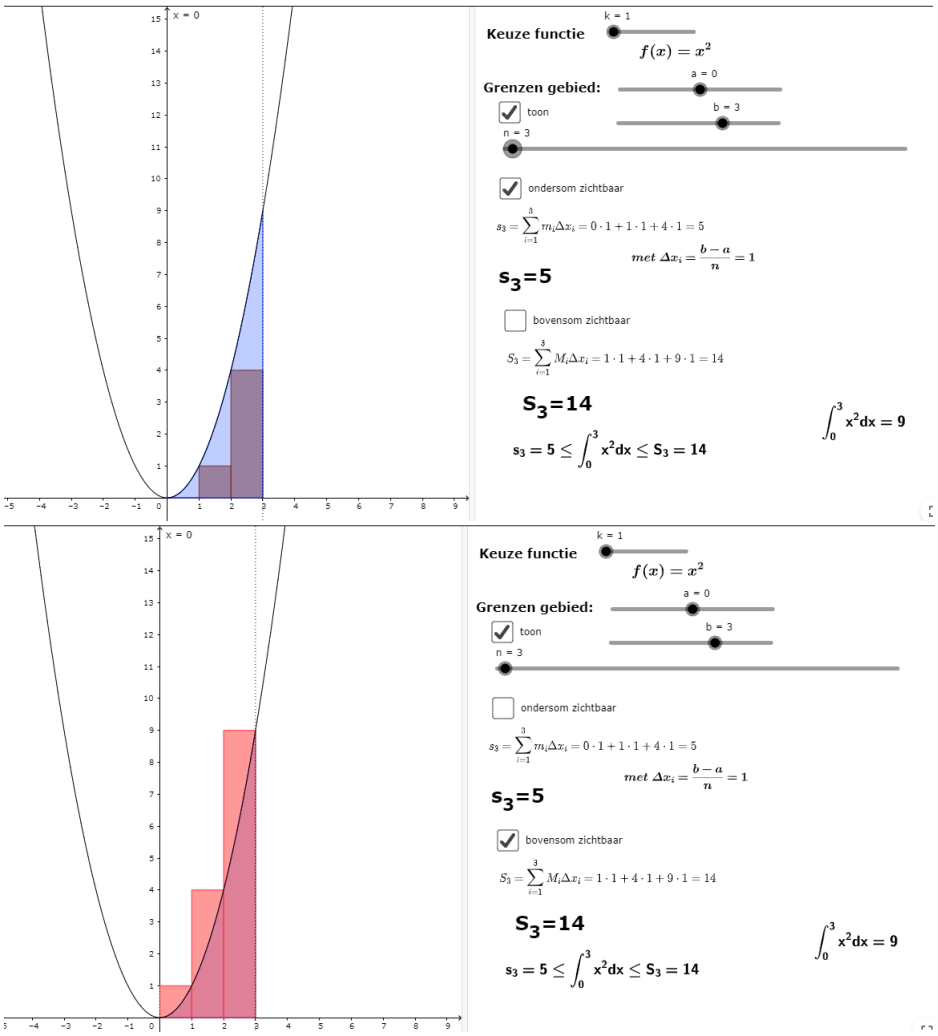

Figure 3: https://www.geogebra.org/m/CwjpD27v

2.3 Trapeziumregel

In plaats van rechthoeken, kan men ook met trapeziums werken:

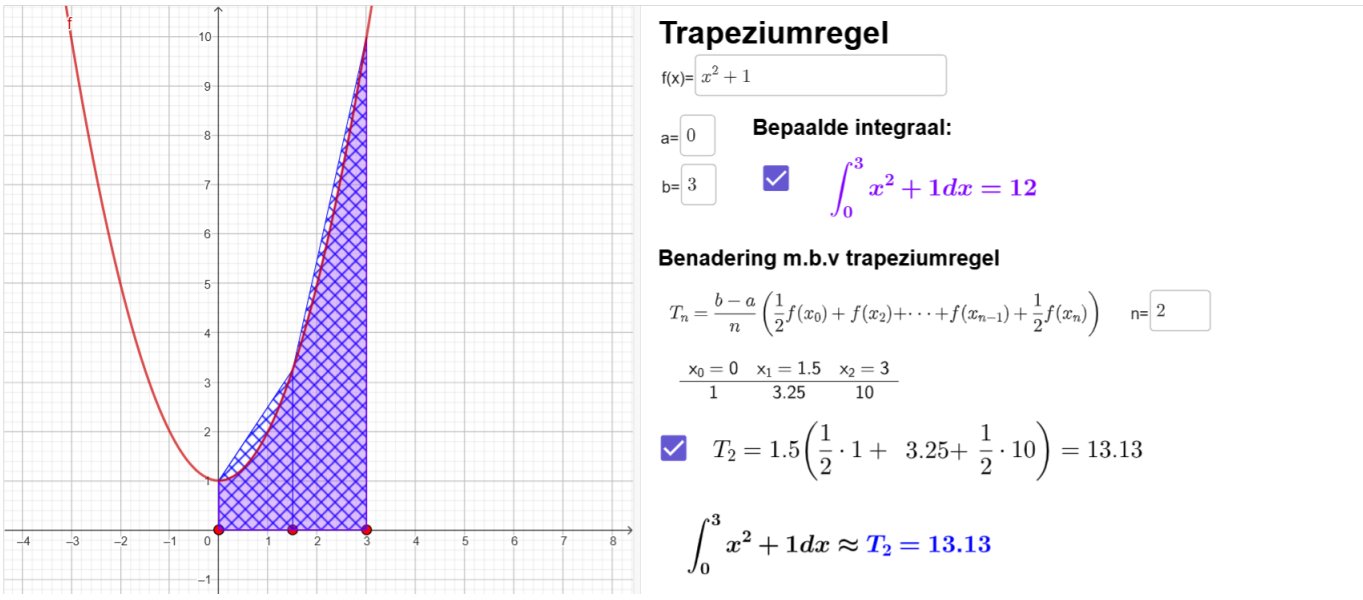

Figure 4: https://www.geogebra.org/m/j2uhfvzh

3 Bepaalde integraal als som van georiënteerde oppervlakte

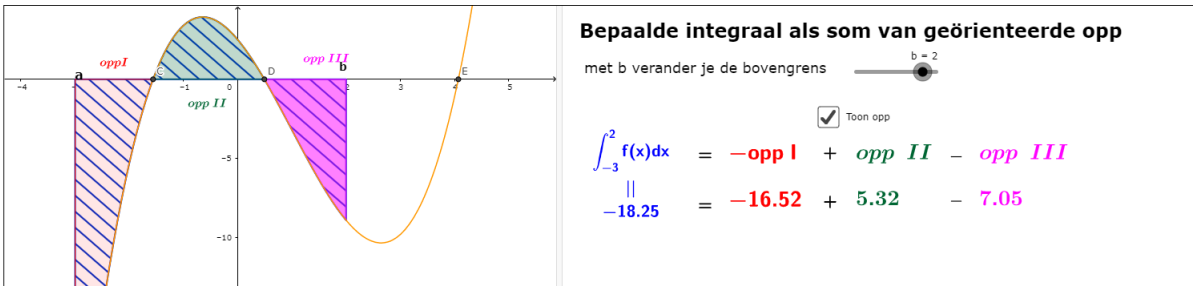

Figure 5: https://www.geogebra.org/m/CwjpD27v

4 Rekenregel

Rekenregel

Een bepaalde integraal berekenen met onder- en/of bovensommen is niet erg praktisch. Volgende rekenregel geldt echter

$\int_a^b f(x)dx = [F(x)]_a^b = F(b) - F(a)$ met $DF = f$

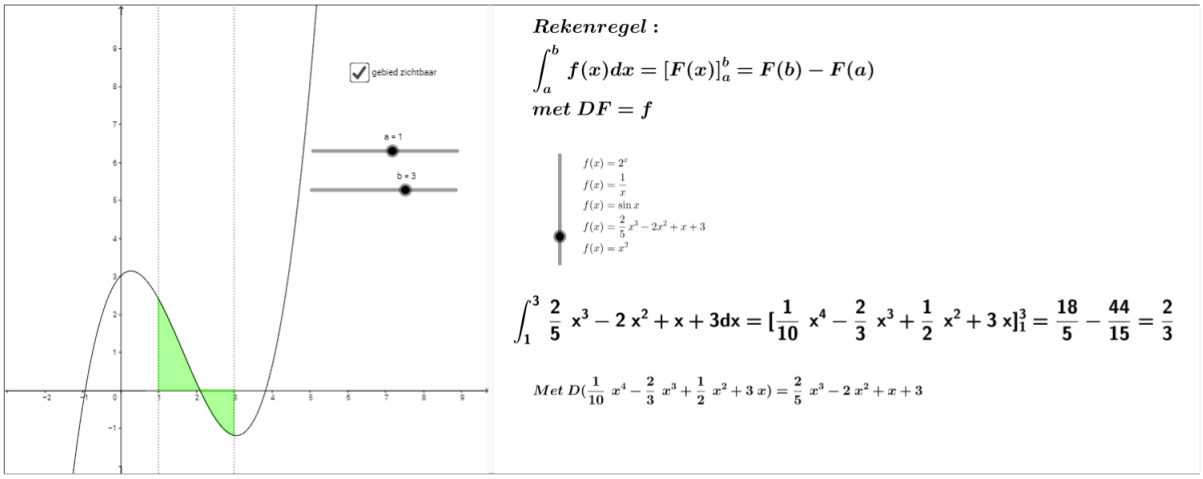

Figure 6: https://www.geogebra.org/m/k3jNteMx

5 Bewijs rekenregel

5.1 Integraalfunctie

5.1.1 Begripsvorming

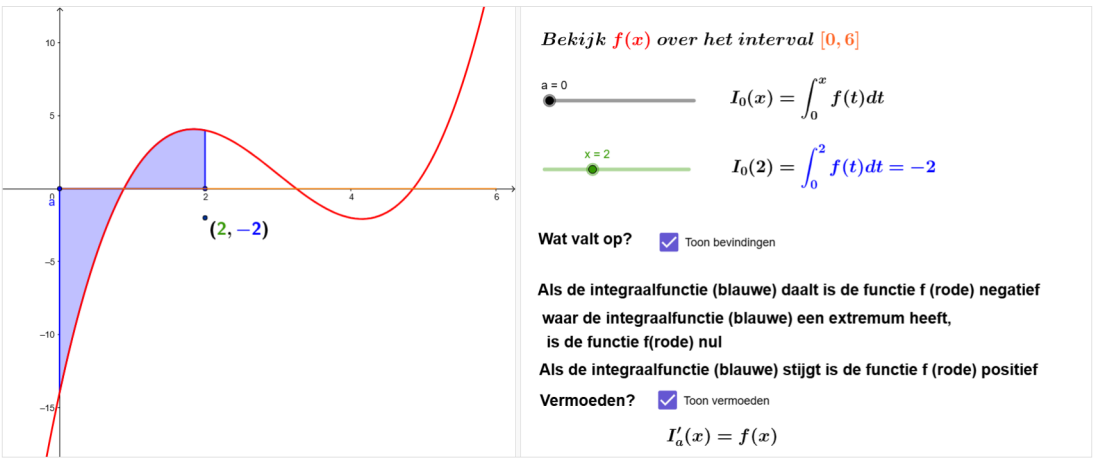

Figure 7: https://www.geogebra.org/m/QzHejD4G

5.1.2 Hoofdstelling van de integraalrekening

Zij $f : [a, b] \to \mathbb{R}$ een reële continue functie op het interval $[a, b] \subset \mathbb{R}$ dan is voor alle $x_0 \in [a, b]$ de functie $I_{x_0} = \int_{x_0}^{x} f(t)dt$ afleidbaar en een primitieve functie van f.

Dit laatste wil zeggen: $D(I_{x_0}(x)) = f(x)$

5.1.3 Grafisch bewijs

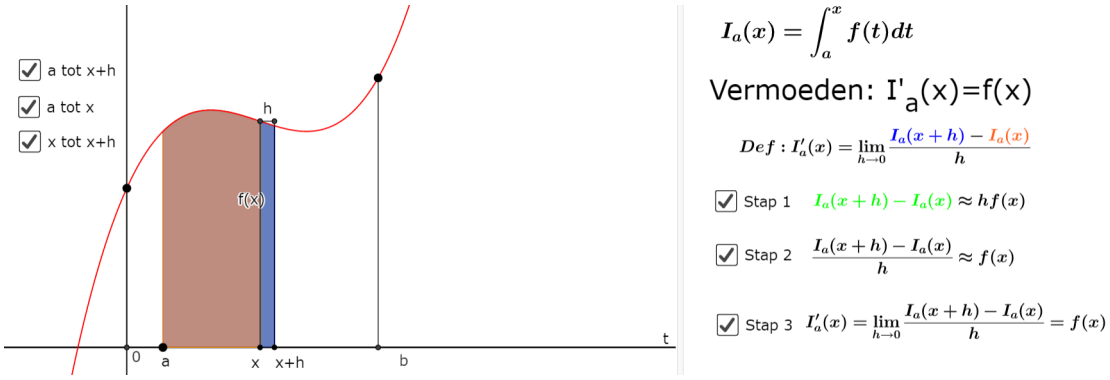

Figure 8: https://www.geogebra.org/m/QzHejD4G

5.1.4 Algebraïsch bewijs

Verwisseling van grenzen

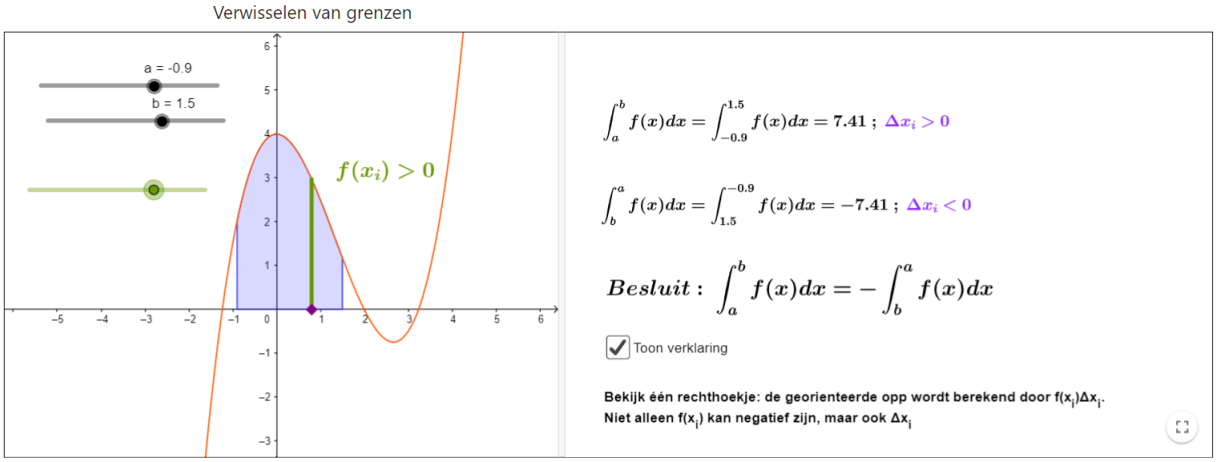

Figure 9: https://www.geogebra.org/m/PwQgTmGT

optelbaarheid over intervallen

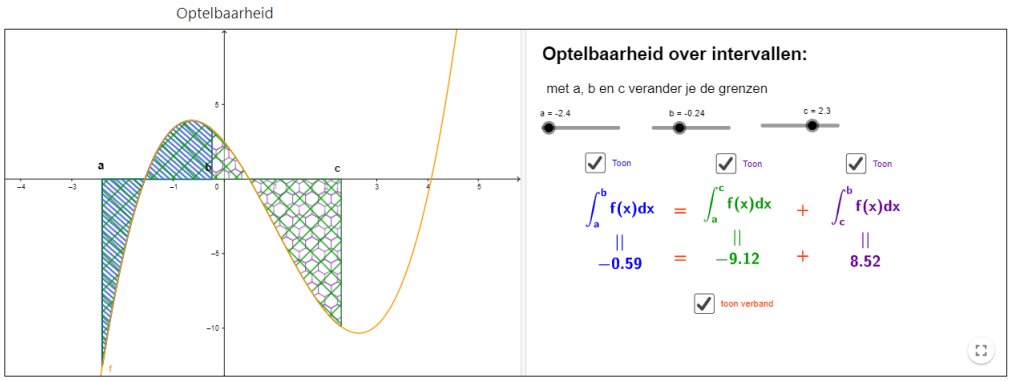

Figure 10: https://www.geogebra.org/m/PwQgTmGT

middelwaardestelling

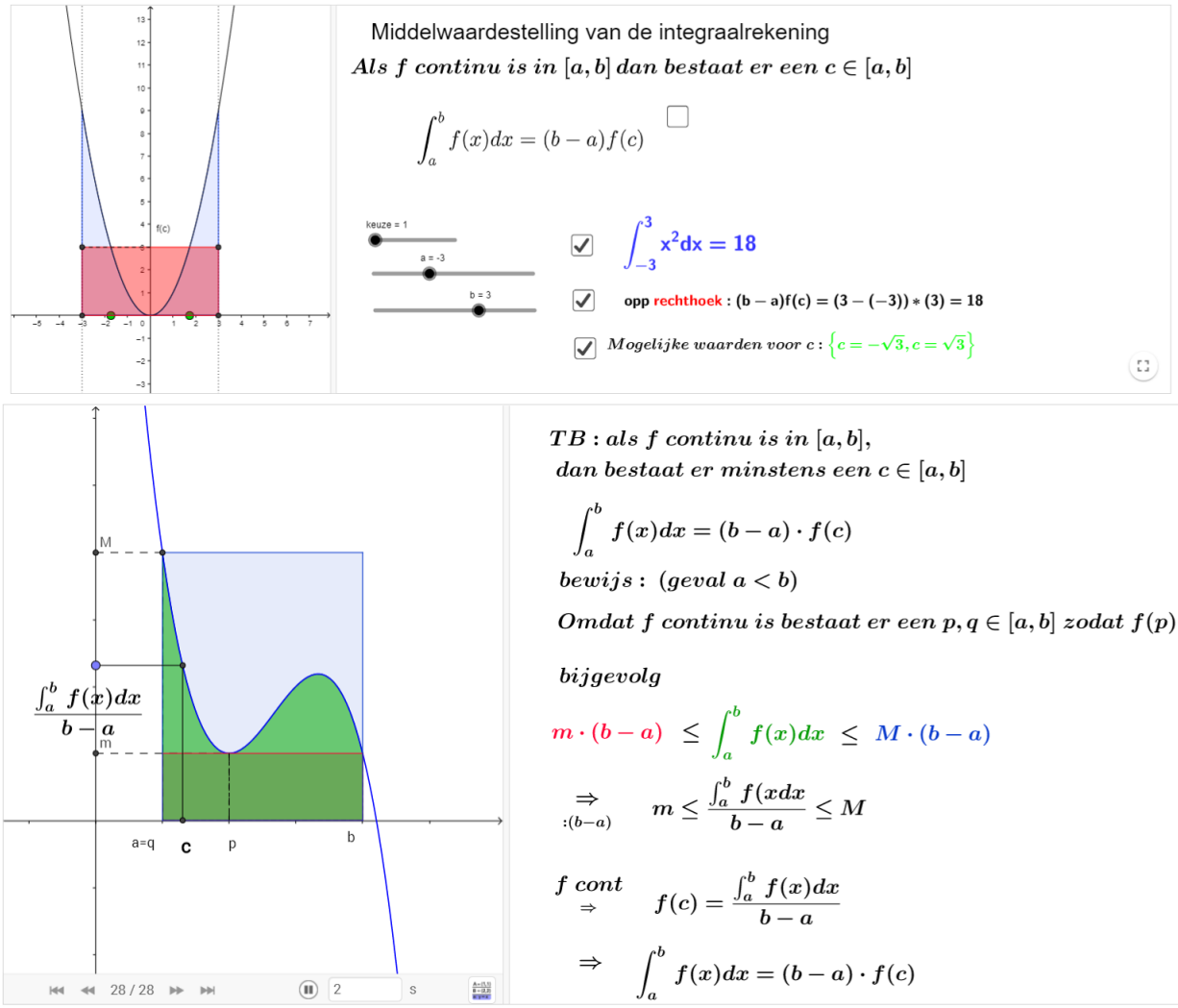

Figure 11: https://www.geogebra.org/m/PwQgTmGT

bewijs

$TB : D(I_a(x)) = f(x)$

Bewijs

$$D(I_a(x)) = \lim_{h\to 0} \frac{I_a(x+h) - I_a(x)}{h} \quad (definitie\ afgeleide)$$

$$= \lim_{h\to 0} \frac{\int_a^{x+h} f(t)dt - \int_a^x f(t)dt}{h} \quad (Definitie\ integraal functie)$$

$$= \lim_{h\to 0} \frac{\int_a^{x+h} f(t)dt + \int_x^a f(t)dt}{h} \quad \text{(verwisselen van grenzen)}$$

$$= \lim_{h\to 0} \frac{\int_x^{x+h} f(t)dt}{h} \quad (optelbaarheid\ van\ intervallen)$$

$$= \lim_{h\to 0} \frac{f(c)\cdot((x+h)-x)}{h} \text{ met } c \in [x, x+h] \quad \textbf{(middelwaardestelling}$$

$$= \lim_{h\to 0} f(c) \text{ met } c \in [x, x+h]$$

$$= f(x)$$

Figure 12: https://www.geogebra.org/m/rqa2xHAC

5.2 Primitieve functies

Begrip primitieve functie

Definitie:
Een primitieve van een functie f in een interval I is een andere functie F
met als eigenschap F'(x)= f(x) voor x in een interval I

Eigenschap:
Twee primitieve functies zijn aan elkaar gelijk op een constante na

Bewijs:
Als F en G twee primitieve functies zijn dan geldt:
(G(x)-F(x))'=G'(x)-F'(x)=f(x)-f(x)=0 in I
Dus G(x)-F(x)=c of G(x)=F(x)+c in I

Figure 13: https://www.geogebra.org/m/nY3X4vVw

5.3 Bewijs rekenregel

Bewijs rekenregel

$$\int_a^b f(x)dx = F(b) - F(a) \qquad met\ DF = f$$

1) Een integraal functie is een primitieve functie van f

$$D(I_a(x)) = D\left(\int_a^x f(t)dt\right) = f(x)$$

2) Twee primitieve functies zijn aan elkaar gelijk op een constante na G(x)=F(x)+c

$$\Rightarrow \int_a^x f(t)dt = F(x) + c$$

Kies x=a: $\int_a^a f(t)dt = F(a) + c \Rightarrow 0 = F(a) + c \Leftrightarrow c = -F(a)$

$$\Rightarrow \int_a^x f(t)dt = F(x) - F(a)$$

Kies nu x=b: $\Rightarrow \int_a^b f(t)dt = F(b) - F(a)$

Neem nu t=x: $\int_a^b f(x)dx = F(b) - F(a)$

Figure 14: https://www.geogebra.org/m/nY3X4vVw

6 Oefeningen

1. Bereken en teken R_4 (midden), s_4 en S_4 over het interval $[0, 4]$

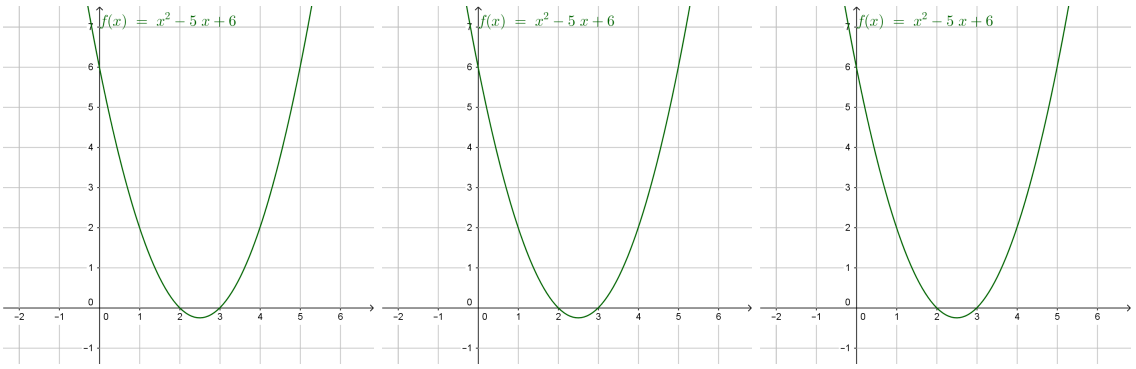

2. Bereken de "rechtereindpunt" Riemannsom voor $f(x) = x^3 - 6x^2$ over $[1, 3]$ met $n = 4$ deelintervallen. Is deze Riemannsom een onder- of overschatting van $\int_1^3 x^3 - 6x^2 dx$? Leg uit.
3. Benader de waarde van $\int_0^1 3sin^{-1}(x)dx$ door R_2 met α_i de rechtereindpunten (A. π)
4. Welke Riemannsom wordt berekend m.b.v. volgende formule?

$$\int_a^b f(x)dx = \lim_{n\to+\infty} \frac{b-a}{n} \sum_{r=1}^{n} f\left(a + \frac{(b-a)r}{n}\right)$$

5. Los op:

12. Which of the following gives the exact area under the curve $f(x) = \ln(x)$ on the interval $[2, 7]$?

(a) $\lim_{n\to\infty} \sum_{i=1}^{n} \frac{5}{n} \ln\left(2 + \frac{5}{n}i\right)$

(b) $\lim_{n\to\infty} \sum_{i=1}^{n} \frac{5}{n} \ln\left(\frac{5}{n}i\right)$

(c) $\lim_{n\to\infty} \sum_{i=1}^{n} \frac{7}{n} \ln\left(2 + \frac{5}{n}i\right)$

(d) $\lim_{n\to\infty} \sum_{i=1}^{n} \frac{7}{n} \ln\left(\frac{7}{n}i\right)$

(e) $\lim_{n\to\infty} \sum_{i=1}^{n} \frac{7}{n} \ln\left(2 + \frac{7}{n}i\right)$

6. Gegeven is onderstaande grafiek van $f(x)$

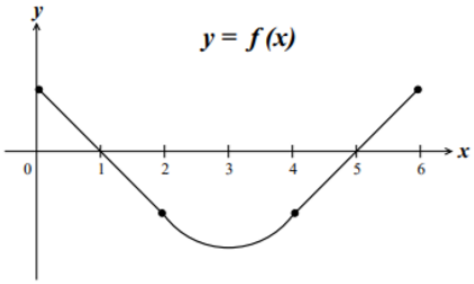

Zij $A(x) = \int_0^x f(t)dt$ met $0 \leq x \leq 6$

(a) Over welke interval(len) is $A(x)$ positief?

(b) Over welke interval(len) is $A(x)$ stijgend?

(c) Over welke interval(len) is $A(x)$ hol?

(d) Voor welke waarde(n) van x bereikt $A(x)$ een absoluut maximum?

7. Los op:

4. (12 pts) The function f is continuous on $[0, 8]$. The graph of f is shown below.

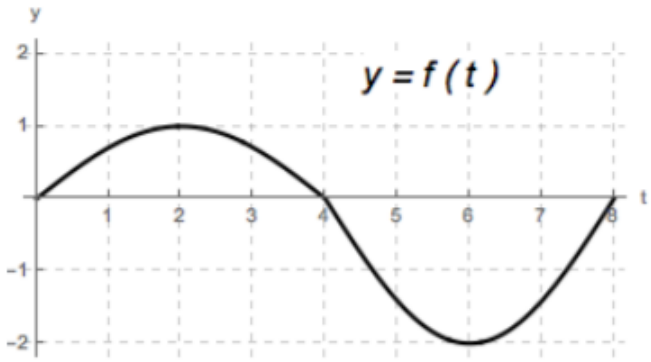

Let $A(x) = \int_0^x f(t)\,dt$ for $0 \le x \le 8$.

(a) Circle the correct statement below regarding the value of $A(4.2)$.

i. $A(4.2) < 0$
iii. $A(4.2) > 0$
ii. $A(4.2) = 0$
iv. No previous choice is true.

(b) Circle the correct statement below regarding the value of $A'(4.2)$.

i. $A'(4.2) < 0$
iii. $A'(4.2) > 0$
ii. $A'(4.2) = 0$
iv. No previous choice is true.

(c) Circle the choice that correctly completes the following sentence.
The function A attains its **maximum** value on $[0, 8]$ at ____.

i. $x = 0$
iii. $x = 4$
v. $x = 8$
ii. $x = 2$
iv. $x = 6$
vi. No previous choice is true.

(d) Circle the choice that correctly completes the following sentence.
The function A is **decreasing** and **concave DOWN** on the interval ____.

i. $(0, 2)$
iii. $(4, 6)$
v. No such interval exists.
ii. $(2, 4)$
iv. $(6, 8)$
vi. No previous choice is true.

8. Bepaal het functievoorschrift van de functie f en een waarde voor de constante c zodanig dat:
$$\int_c^x f(t)dt = \cos x - \frac{1}{2}$$

9. Bepaal de functie f en de ondergrens a waarvan $I_a(x) = x^4 - 16$ een integraalfunctie is. Is $I_a(x) = x^4 + 16$ ook een integraalfunctie van dezelfde functie f?

10. Een functie f is continu in $\mathbb{R}$ en voldoet aan de vergelijking
$$\int_0^x f(t)dt = -\frac{1}{2} + x^2 + x\sin(x) + \frac{1}{2}\cos(2x)$$
voor elke $x \in R$. Bereken $f\left(\frac{\pi}{4}\right)$.

11. Bepaal alle reële getallen zodat:
$$\int_0^x t^3 - t dt = \frac{1}{3}\int_{\sqrt{2}}^x t - t^3 dt$$

(Opl: $x = 0, x = \pm\sqrt{2}$)

12. Los op:

Welke van onderstaande figuren kan de grafiek voorstellen van de functie $f : \mathbb{R} \to \mathbb{R} : x \mapsto f(x) = \int_0^x e^{-t}\,dt$?

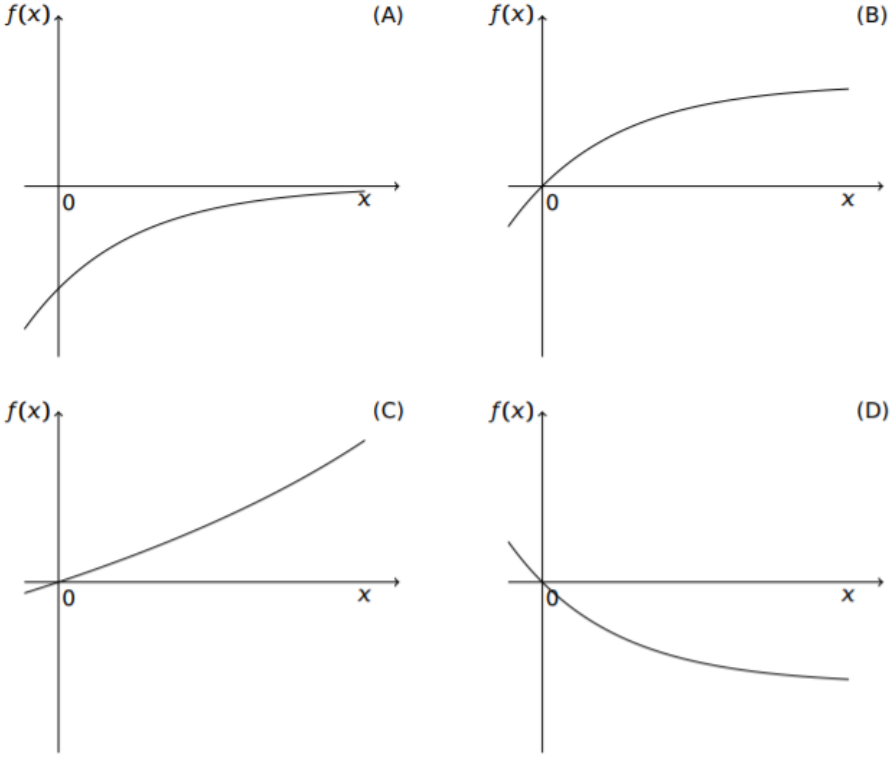

13. Bewijs de optelbaarheid over intervallen als $c \leq b \leq a$

14. Bepaal c en $f(c)$ waarvan sprake in de middelwaardestelling.

    (a) $f(x) = 4 - x^2$, $a = -2$, $b = 2$

    (b) $f(x) = 2x - 4$, $a = 0$, $b = 4$

    (c) $f(x) = -x^2 + 2x + 2$ over het interval $[0, 3]$

15. Als $\int_0^x f(t)dt = x \cdot e^{2x} + \int_0^x e^{-t} f(t)dt$ bepaal dan een expliciet voorschrift voor f(x). (Opl. $f(x) = \frac{e^{2x}+2xe^{2x}}{1-e^{-x}}$)

7 Vragen mondeling examen

1. Geef de formule voor het berekenen van een bepaalde integraal. Bewijs deze ook als je al weet wat een primitieve functie is en dat een integraalfunctie een primitieve functie is.
2. Geef de formule voor het berekenen van een bepaalde integraal. Geef vervolgens de structuur van het bewijs.
3. Leg het begrip integraalfunctie uit en bewijs $DI_a(x) = f(x)$ op een grafische intuïtieve manier.
4. Leg het begrip integraalfunctie uit en bewijs $DI_a(x) = f(x)$ op een algebraïsche manier. Je mag er vanuit gaan dat alle hulpmiddelen gekend zijn.
5. Geef en bewijs de middelwaardestelling.
6. Leg het begrip primitieve functie uit en bewijs dat twee primitieve functies aan elkaar gelijk zijn op een constante na.
7. Leg het begrip optelbaarheid over intervallen uit.
8. Leg uit: $\int_a^b f(x)dx = -\int_b^a f(x)dx$
9. Leg het begrip Riemannsom uit.
10. Geef en verklaar de formule voor het berekenen van de inhoud bij het wentelen van een vlakdeel om de x-as.